社１　右の都道府県名を答えましょう。

①（　　）
②（　　）
③（　　）

社２　右の都道府県名を答えましょう。

①（　　）
②（　　）
③（　　）

社３　右の都道府県名を答えましょう。

①（　　）
②（　　）
③（　　）

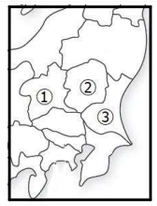

社４　右の都道府県名を答えましょう。

①（　　）
②（　　）
③（　　）

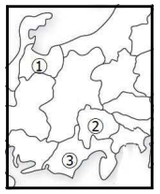

社５　右の都道府県名を答えましょう。

①（　　）
②（　　）
③（　　）

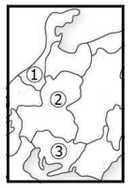

社６　右の都道府県名を答えましょう。

①（　　）
②（　　）
③（　　）

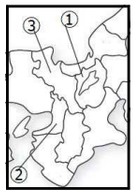

社７　右の都道府県名を答えましょう。

①（　　）
②（　　）
③（　　）

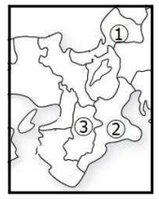

社８　右の都道府県名を答えましょう。

①（　　）
②（　　）
③（　　）

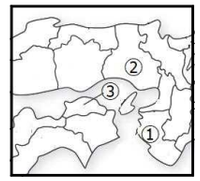

社９　右の都道府県名を答えましょう。

①（　　）
②（　　）
③（　　）

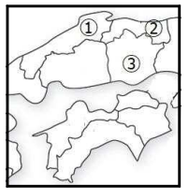

社１０　右の都道府県名を答えましょう。

①（　　）
②（　　）
③（　　）

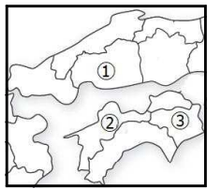

社１１　右の都道府県名を答えましょう。

①（　　）
②（　　）
③（　　）

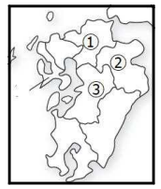

社１２　右の都道府県名を答えましょう。

①（　　）
②（　　）
③（　　）

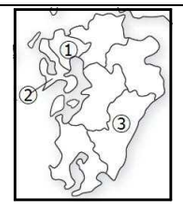

社１３　ア，イの地図記号は，何を表しているかな？

ア　

イ　

社１４　ア，イの地図記号は，何を表しているかな？

ア　 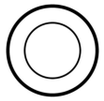

イ　

社１５　次の地図記号は，何を表しているかな？

社１６　次の地図記号は，何を表しているかな？

社１７　Aの国名？　Bの国名？

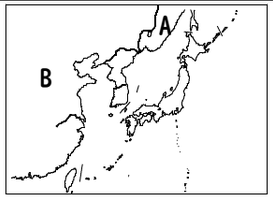

社１８　Cの国名？　Dの国名？

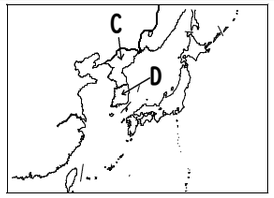

社１９　日本の北のはしの島の名前は？

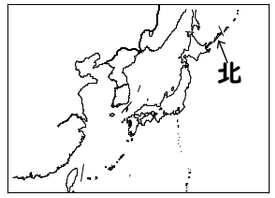

社２０　日本の東のはしの島の名前は？

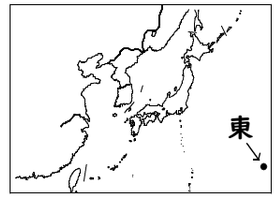

社２１　日本の南のはしの島の名前は？

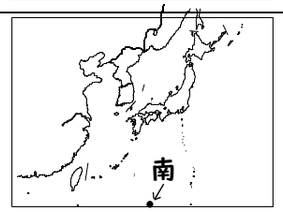

社２２　日本の西のはしの島の名前は？

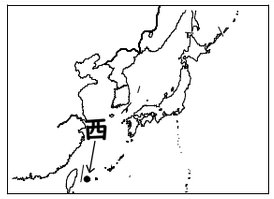

社２３　アの大陸の名前？

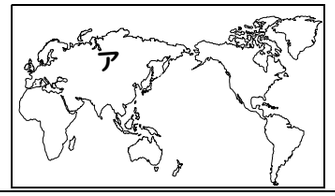

社２４　イ，オの大陸の名前？

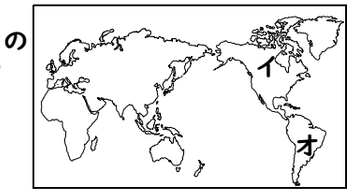

社２５　ウ，エの大陸の名前？

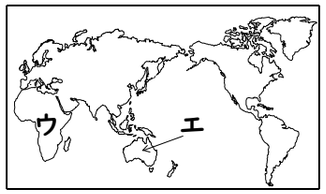

社２６　ア，イの海の名前？

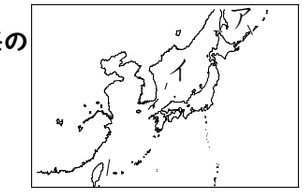

社２７　ウ，エの海の名前？

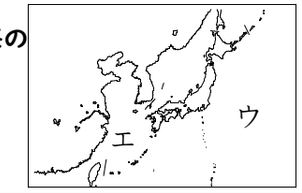

社２８　右のグラフは，①～⑥のどこのものか？

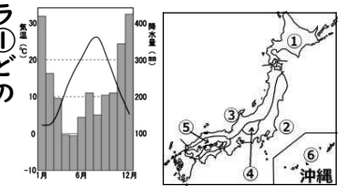

社２９　右のグラフは，①～⑥のどこのものか？

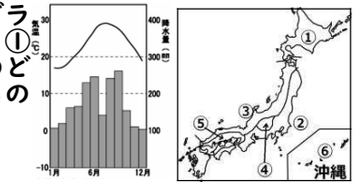

社３０　右のグラフは，①～⑥のどこのものか？

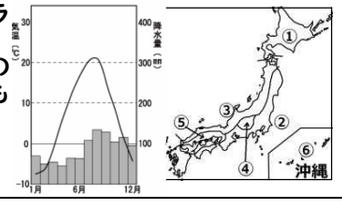

社３１　アは，何という平野かな？

社３２　イは，日本で一番大きな平野だ。何という平野かな？

①富山県 ②山梨県 ③静岡県 4	①群馬県 ②栃木県 ③茨城県 3	①岩手県 ②山形県 ③宮城県 2	①青森県 ②秋田県 ③福島県 1
①和歌山県 ②兵庫県 ③香川県 8	①福井県 ②三重県 ③奈良県 7	①滋賀県 ②大阪府 ③京都府 6	①石川県 ②岐阜県 ③愛知県 5
①佐賀県 ②長崎県 ③宮崎県 12	①福岡県 ②大分県 ③熊本県 11	①広島県 ②愛媛県 ③徳島県 10	①島根県 ②鳥取県 ③岡山県 9
警察署（けいさつしょ）交番の記号は×。おまわりさんが持っている警棒を表す。〇で囲むと警察署。 16	消防署（しょうぼうしょ）　昔の火消しが使っていた「さすまた」という道具をイメージしたもの。 15	ア市役所（東京都では区役所） イ田 14	ア神社 イ寺 13
南鳥島（みなみとりしま） 20	択捉島（えとろふとう） 19	C 朝鮮民主主義人民共和国（ちょうせん）（北朝鮮） D 大韓民国（だいかんみんこく）（韓国） 18	A ロシア連邦（れんぽう）（ロシア） B 中華人民共和国（ちゅうかじんみんきょうわこく）（中国） 17
イ北アメリカ大陸 オ南アメリカ大陸 24	ユーラシア大陸 23	与那国島（よなぐにじま） 22	沖ノ鳥島（おきとりしま） 21
③日本海側は，冬に雪が多いため，降水量が多い。 28	ウ　太平洋 エ　東シナ海 27	ア　オホーツク海 イ　日本海 26	ウ　アフリカ大陸 エ　オーストラリア大陸 25
関東平野 32	十勝平野（とかち） 31	①北海道の冬は０℃以下。つゆがない。（降水量が 6 月に高くない） 30	⑥沖縄は気温が高い。降水量は 6 月（つゆのため），7･8 月(台風のため)に多い。 29